Prénom : ---------- Date : ----------

Mathématiques CE1	Bilan	Bilan 2

Exercice 1

À quels nombres correspondent les repères a, b et c ? Complète les bulles.



Relie chaque nombre à son repère. Entoure sur la ligne graduée les repères 28, 39 et 48.



28 39 48

Exercice 2

Combien y a-t-il d'escargots ? Entoure sur le schéma les groupements que tu fais pour calculer.



Il y a ..... escargots.

Exercice 3

Lisa a besoin de 36 perles. Entoure sur le schéma ce qu'elle doit prendre.



Exercice 4

Place.

■ dans la case f 2.

● dans la case g 1.

▲ dans la case d 5.

Complète.

□ est dans la case ..... .

○ est dans la case ..... .

△ est dans la case ..... .

	a	b	c	d	e	f	g	h
1								
2								
3			□					
4	△							
5						○		

Exercice 5

Observe l'album de timbres de Lisa. Combien y a-t-il de timbres qu'on ne voit pas ?

Schéma

Opération

Il y a ..... timbres qu'on ne voit pas..